MEDIDAS · 1.º DE PRIMARIA

Nivel 1 · Largo y corto, alto y bajo

Nombre _____ Fecha _____ Aciertos _____ / 6

Calcula con cuidado y escribe el resultado en las casillas.

1

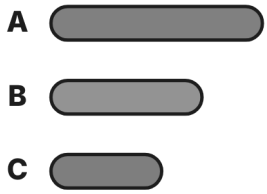

¿Cuál es el más largo? ☐

2

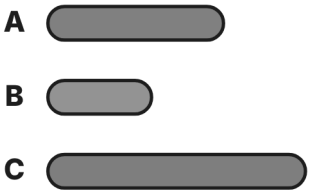

¿Cuál es el más largo? ☐

3

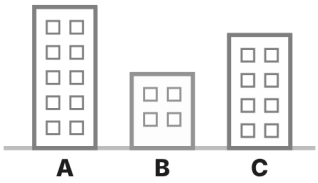

¿Cuál es el más bajo? ☐

4

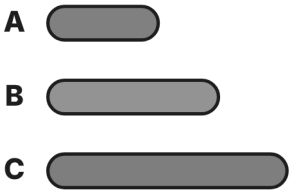

¿Cuál es el más corto? ☐

5

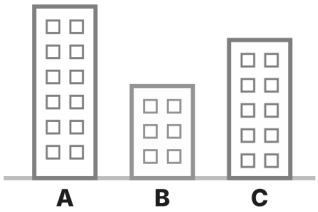

¿Cuál es el más alto? ☐

6

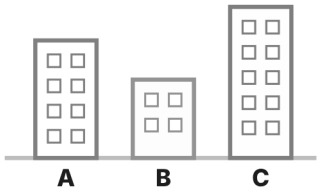

¿Cuál es el más bajo? ☐

Nivel 2 · Pesado y ligero

Nombre _____ Fecha _____ Aciertos _____ / 6

Calcula con cuidado y escribe el resultado en las casillas.

1



¿Qué pesa menos? ☐
(la calabaza / la fresa)

2

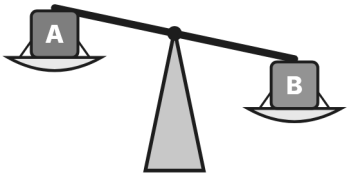

¿Qué pesa menos? ☐

3



¿Qué pesa más? ☐
(el pollito / la vaca)

4



¿Qué pesa más? ☐
(el camión / el patinete)

5



¿Qué pesa menos? ☐
(el tren / la pelota)

6



¿Qué pesa menos? ☐
(la mariposa / el oso)

Solucionario

Niveles 1 a 2 · dificultad media

Solo para el docente

Nivel 1 · Largo y corto, alto y bajo

1. A
2. C
3. B
4. A
5. A
6. B

Nivel 2 · Pesado y ligero

1. la fresa
2. A
3. la vaca
4. el camión
5. la pelota
6. la mariposa