PROBLEMAS · 2.º DE PRIMARIA

Nivel 1 · Sumar y restar hasta 100

Nombre _____ Fecha _____ Aciertos _____ / 3

Lee con atención, escribe las operaciones en el espacio y la solución en la casilla.

1



En una bandeja hay 30 peras y en otra bandeja hay 70 peras. ¿Cuántas peras hay en total?

Operaciones

Solución _____ **peras**

2



Adrián lee 14 páginas el sábado y 67 páginas el domingo. ¿Cuántas páginas lee en total?

Operaciones

Solución _____ **páginas**

3

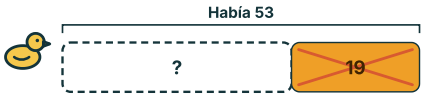

En la granja hay 53 patos. El granjero vende 19 patos. ¿Cuántos patos quedan en la granja?

Operaciones

Solución _____ **patos**

PROBLEMAS · 2.º DE PRIMARIA

Nivel 2 · Buscar lo que falta

Nombre _____ Fecha _____ Aciertos _____ / 3

Lee con atención, escribe las operaciones en el espacio y la solución en la casilla.

1

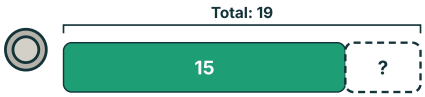

Leo tenía 15 chapas. Ahora tiene 19 chapas. ¿Cuántas chapas ha conseguido?

Operaciones

Solución _____ **chapas**

2



Entre Pablo y Adrián tienen 79 pegatinas. Pablo tiene 54 pegatinas. ¿Cuántas pegatinas tiene Adrián?

Operaciones

Solución _____ **pegatinas**

3

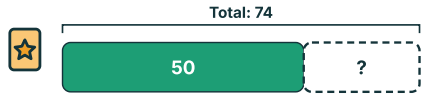

En una caja había 74 cromos. Ahora quedan 50 cromos. ¿Cuántos cromos se han sacado?

Operaciones

Solución _____ **cromos**

PROBLEMAS · 2.º DE PRIMARIA

Solucionario

Niveles 1 a 2 · dificultad media

Solo para el docente

Nivel 1 · Sumar y restar hasta 100

1. 100 peras
2. 81 páginas
3. 34 patos

Nivel 2 · Buscar lo que falta

1. 4 chapas
2. 25 pegatinas
3. 24 cromos